S5 : Comment représenter les aires urbaines sur le territoire français ?

<u>Devoirs</u> : VOCABULAIRE

+ apporter matériel cartographie

+ ex diapo S5b Q. 1 à 3

Objectif : Localiser et hiérarchiser les aires urbaines françaises.

Compétence : Lire et pratiquer le langage cartographique

MÉTHODE

Bien réaliser les figurés d'un croquis

1 Figuré de surface coloré

- au crayon de couleur.
- c'est un extrait de zonage : coloriage régulier, sans dépasser.

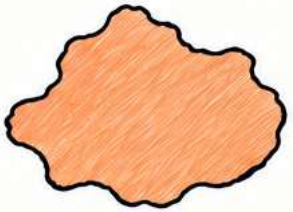



2 Figuré de surface texturé

- au stylo fin.
- c'est aussi un extrait de zonage : même type de hachures, même orientation et même espacement.





3 Figuré ponctuel

- au feutre ou au stylo.
- il doit être rigoureusement identique à celui de la légende : même forme, même taille et même couleur.



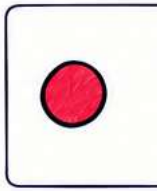

4 Figuré linéaire

- au feutre ou au stylo.
- il doit être identique à celui de la légende par sa forme et sa couleur.
  Sa longueur s'adapte à l'espace représenté sur la carte.





Règle générale : La carte et la légende doivent toujours utiliser exactement le même langage cartographique.

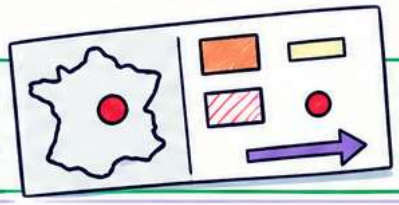

S5b

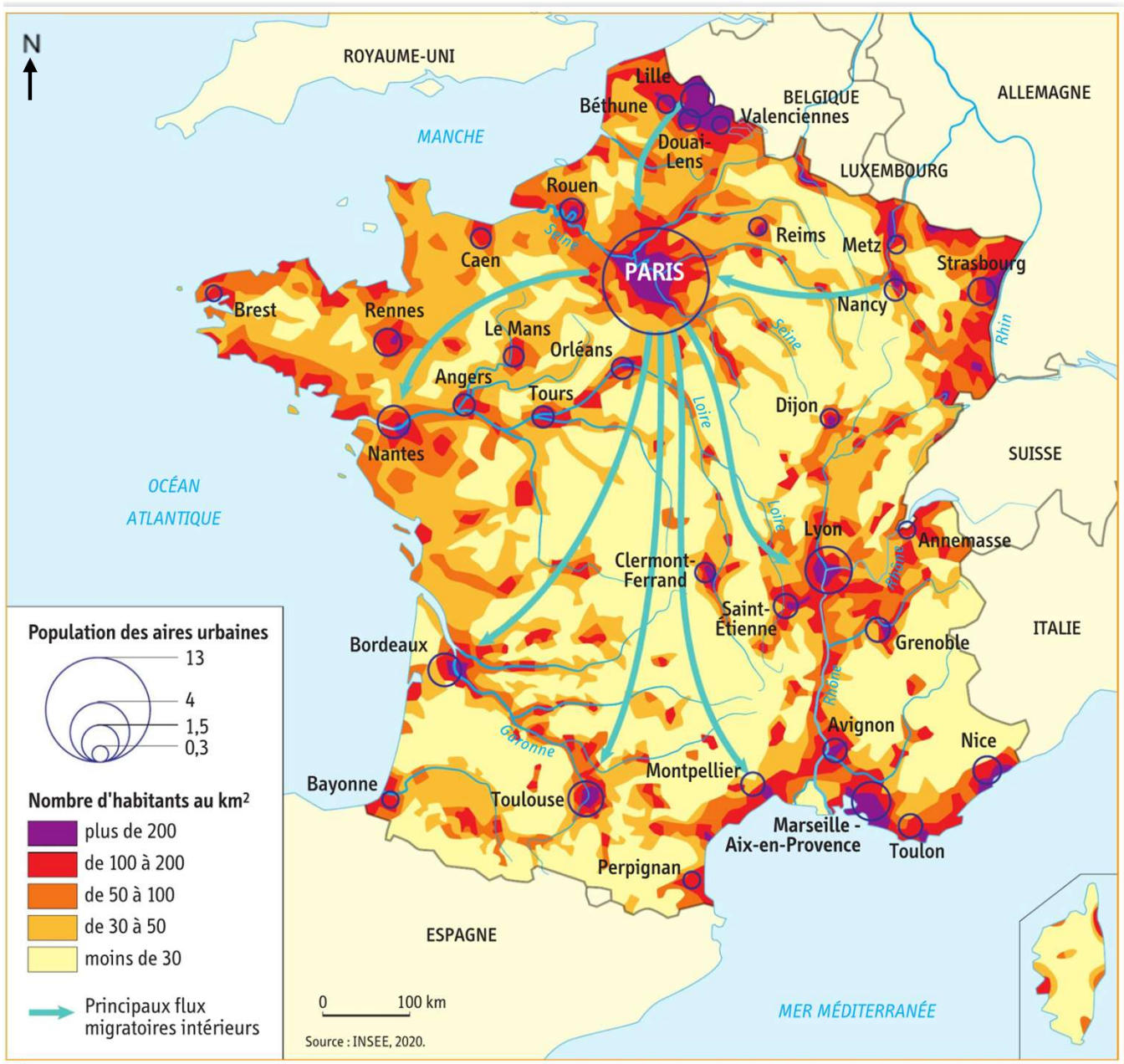

1 Les aires urbaines et les densités de population

Manuel numérique Histoire Géographie Hatier, 2026, p. 244

-Comprendre ce que montre la carte

1-**Décrivez** la répartition de la population française : quels sont les espaces de fortes et de faibles densités ?

2-**Comparez** l'importance des principales aires urbaines françaises. Que constatez-vous ?

3-Dans quelles directions se dirigent les principaux flux migratoires intérieurs ?

-Comprendre comment elle le montre

4-Quel type de figuré est utilisé pour représenter les densités de population ? Pourquoi est-il adapté ?

5-Comment le cartographe gradue-t-il l'importance des aires urbaines ?

6-Quel type de figuré représente les flux migratoires ? Que nous indiquent la forme et le sens de ce figuré ?

S5c

Manuel numérique Histoire Géographie Hatier, 2026, p. 244

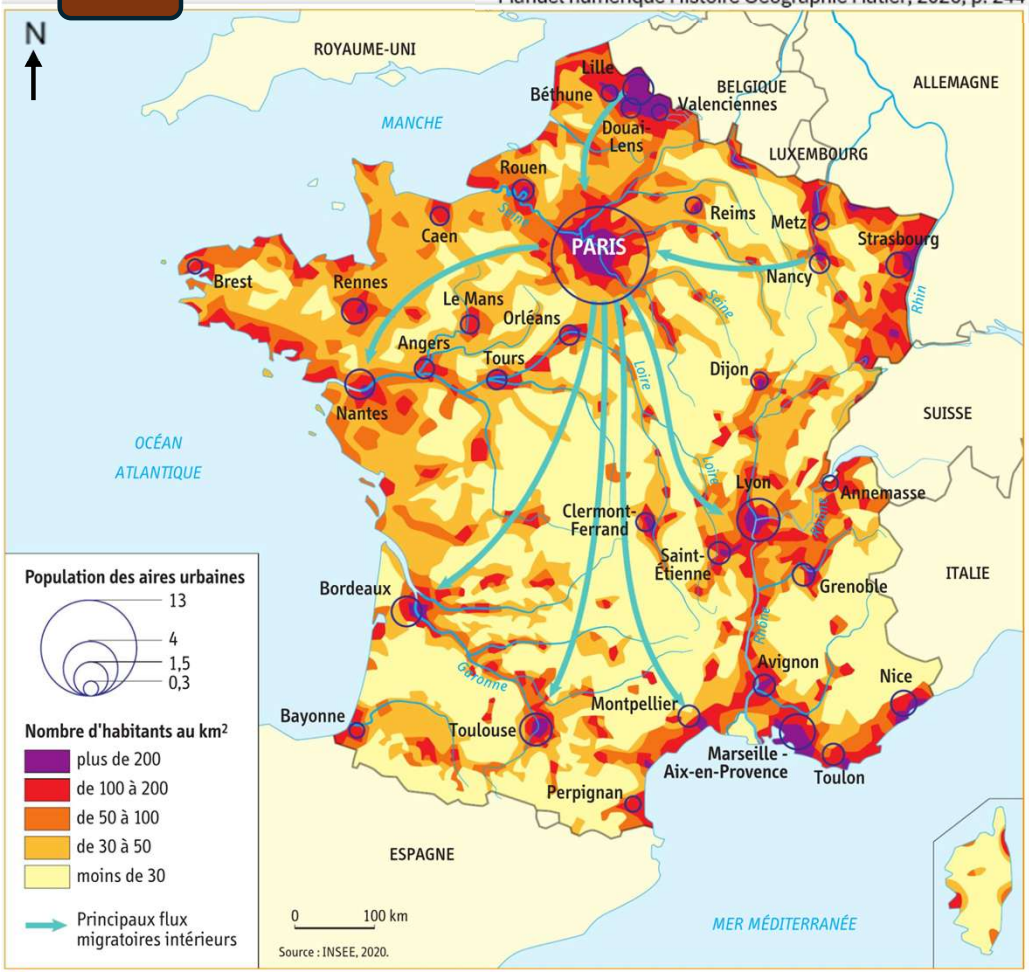

1 Les aires urbaines et les densités de population

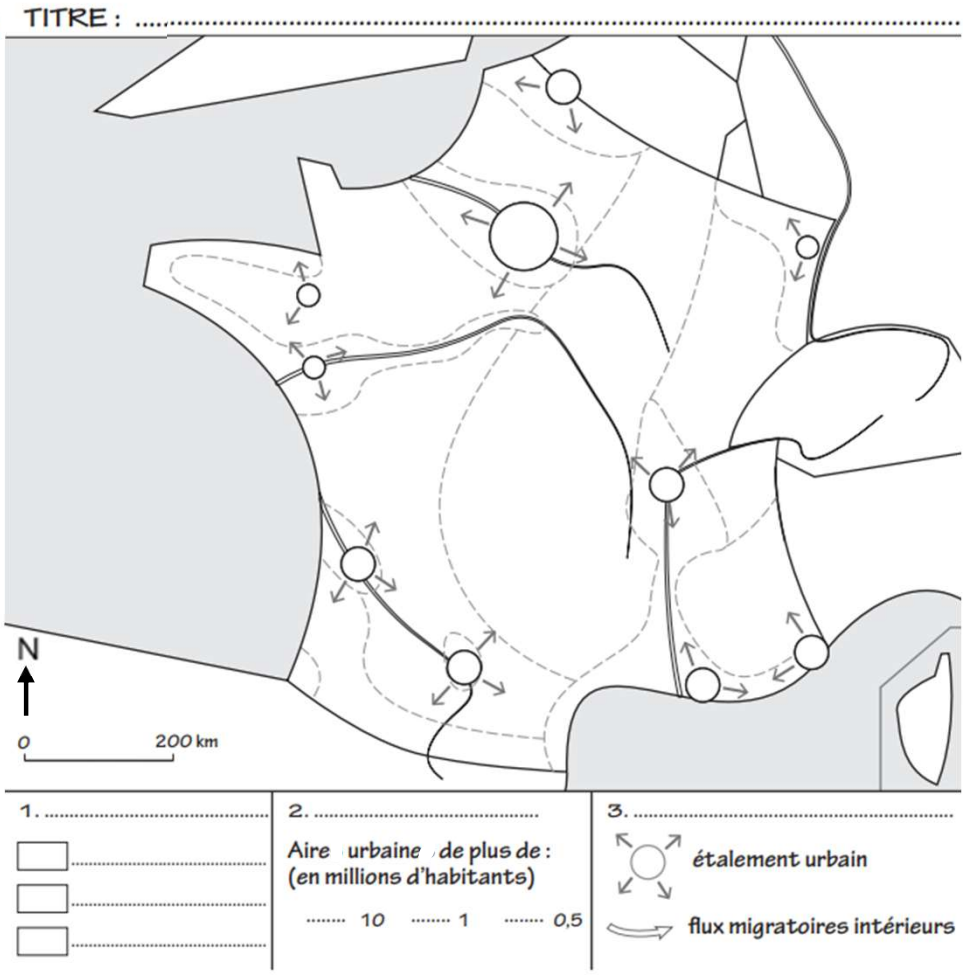

1- **Localise et nomme** sur le croquis, les pays frontaliers au stylo noir et lettres capitales ; les océans en bleu et lettres capitales ; les mers en bleu et lettres minuscules, les grands fleuves en bleu, minuscules, le long du cours.
2- **Localise et nomme** au stylo noir les aires urbaines représentées sur le croquis.
3- En première partie de la légende, abordons la densité avec un dégradé allant du rouge au jaune. **Complète** la légende et le croquis.
4- En seconde partie de légende, **complète** la légende avec le titre et **reporte** les figurés appropriés en légende.
5- En troisième partie de légende, **complète** la légende avec le titre et **reporte** les figurés appropriés des flux en violet sur la carte .
6- Nomme ta carte en lui donnant un titre.

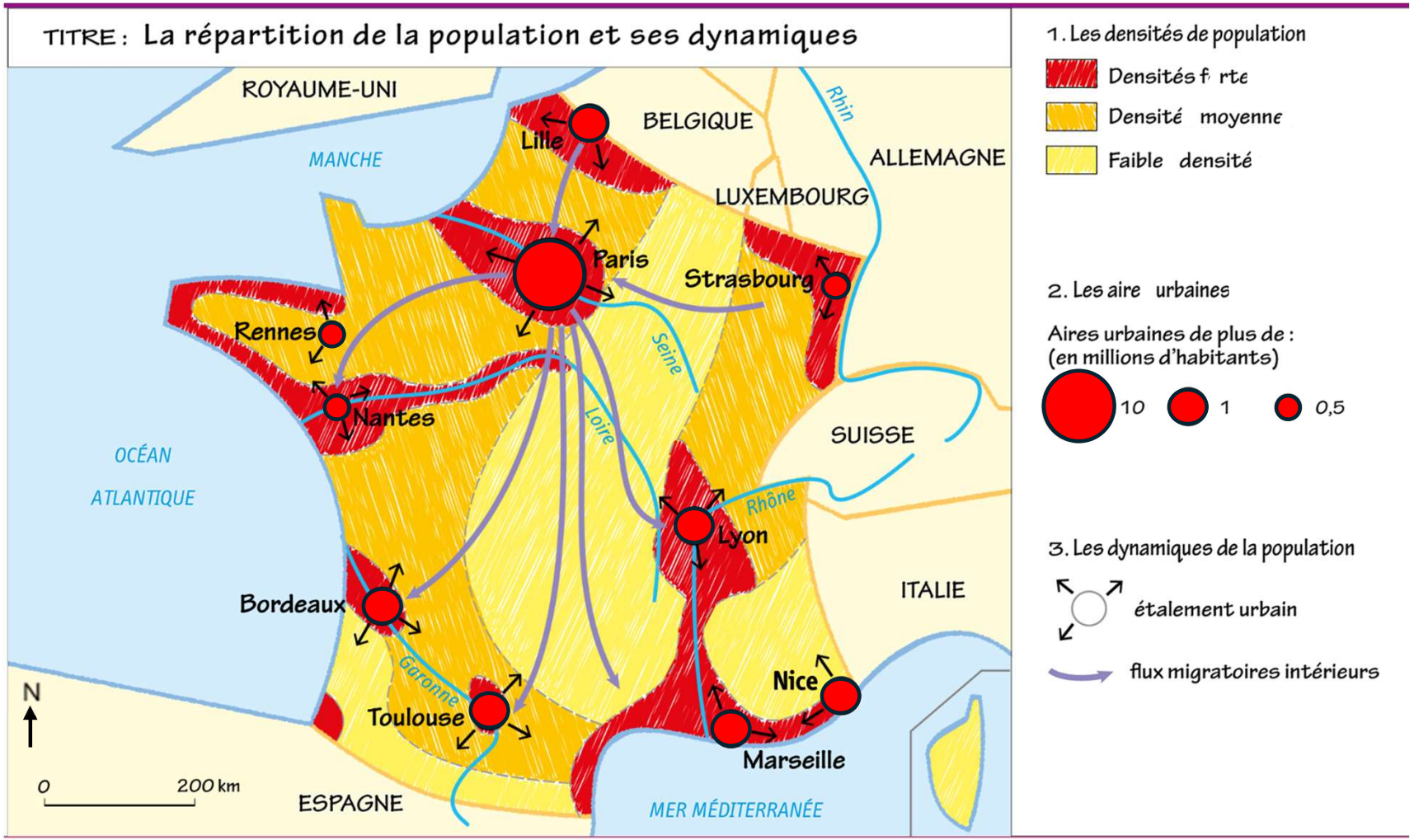
TITRE : La répartition de la population et ses dynamiques
ROYAUME-UNI
MANCHE
BELGIQUE
Lille
Rhin
ALLEMAGNE
LUXEMBOURG
Paris
Strasbourg
Rennes
Seine
Nantes
Loire
SUISSE
OCÉAN
ATLANTIQUE
Rhône
Lyon
ITALIE
Bordeaux
Garonne
Nice
Toulouse
Marseille
N
0
200 km
ESPAGNE
MER MÉDITERRANÉE
1. Les densités de population
Densités f rte
Densité moyenne
Faible densité
2. Les aire urbaines
Aires urbaines de plus de :
(en millions d'habitants)
10
1
0,5
3. Les dynamiques de la population
étalement urbain
flux migratoires intérieurs

Corrigé