Séance 4 :
L'évolution démographique mondiale

Comment évolue la démographie à l'échelle mondiale ?

- Devoirs : Réviser les flashcards (les 12)

- Compétences : Travailler en groupe, Utiliser le langage graphique pour extraire des informations et formuler des hypothèses



Dossier Prospective **ET DEMAIN ?**

Quelle population mondiale en 2050 ?

4a

COMPÉTENCE
Je travaille en groupe
Étudier la population mondiale en 2050

D'après les projections, la population mondiale devrait continuer à augmenter jusqu'en 2050, créant de nouveaux besoins pour plus de 9 milliards d'habitants.

Comment la population mondiale pourrait-elle évoluer jusqu'en 2050 ?

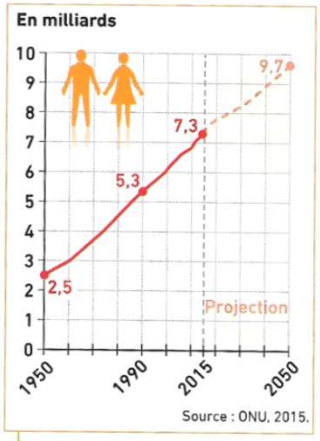

1 L'évolution de la population mondiale

2 Des besoins croissants en 2050
Dessin de Pierre Kroll pour le journal *Le Soir*, 2013.

3 Population et urbanisation en 2050

« L'enjeu démographique est l'un des grands éléments de la transformation du monde à l'horizon 2050. À cette date, la population de l'Inde aura dépassé celle de la Chine, avec 1,6 milliard d'habitants contre moins de 1,4 en Chine, pays qui commencera à être vieux avant d'être riche. La population de l'Afrique atteindra plus de 2 milliards d'habitants, alors qu'aujourd'hui seul un homme sur sept est africain. Cette évolution démographique aura pour conséquence une urbanisation galopante. D'ici à 2050, on s'attend à une croissance du nombre d'urbains, notamment dans les pays pauvres avec un taux d'urbanisation atteignant 70 % de la population mondiale. Cela accentuera les risques de bidonvilles à la périphérie des grandes villes. »

▪ Catherine Withol de Wenden, *Atlas des migrations*, Éditions Autrement, 2012.

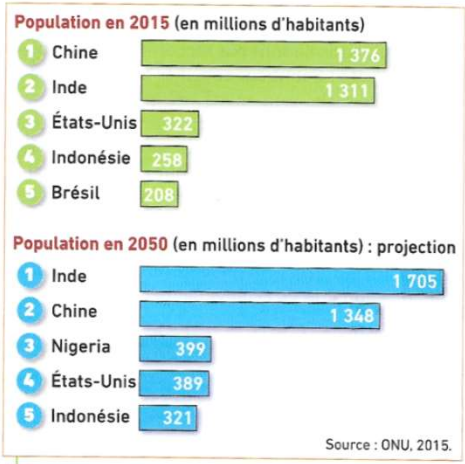

4 Les 5 pays les plus peuplés du monde

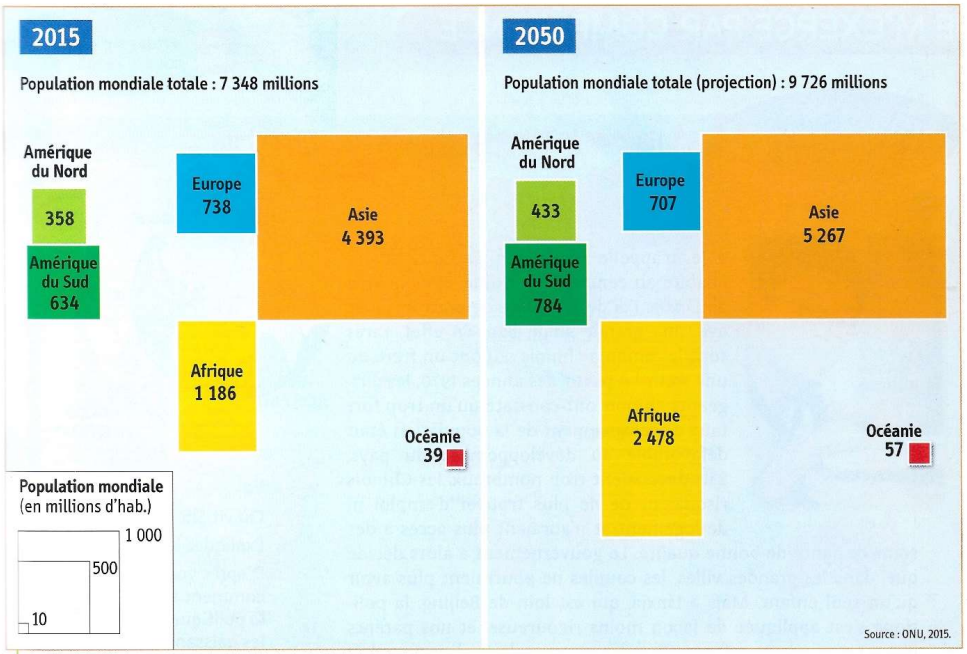

5 L'évolution possible de la population par continent

6 Le vieillissement de la population au Japon
La population du Japon devrait continuer à diminuer dans l'avenir, passant de 126 millions d'habitants en 2015 à 108 millions en 2050. La part des plus de 65 ans dans la population totale devrait augmenter fortement.

ACTIVITÉS

Je travaille en groupe

1. Constituez des groupes pour étudier la population mondiale en 2050.

Partie 1 | Les futurs possibles

a Doc. 1 | Comment devrait évoluer la population mondiale jusqu'en 2050 ?

b Doc. 5 | Quel continent devrait être le plus peuplé en 2050 ? Comment devrait évoluer la population de l'Afrique ? De l'Europe ?

c Doc. 4 | Quel sera le pays le plus peuplé en 2050 ? Comment se classera le Nigeria ?

Partie 2 | Les effets probables

a Doc. 3 | Où vivra la majeure partie de la population mondiale en 2050 ?

b Doc. 2 | Décrivez et expliquez ce dessin de presse (aidez-vous du doc. 5).

c Doc. 6 et Diapo suivante | « Le vieillissement de la population sera planétaire en 2050 » : discutez cette affirmation.

Justifiez vos réponses doivent être justifiées avec des données chiffrées si possible.

D'après *Manuel Hatier 5eHistoire Géographie*, 2016, pp. 214-215.

4b

RAPPEL FLASHCARD !

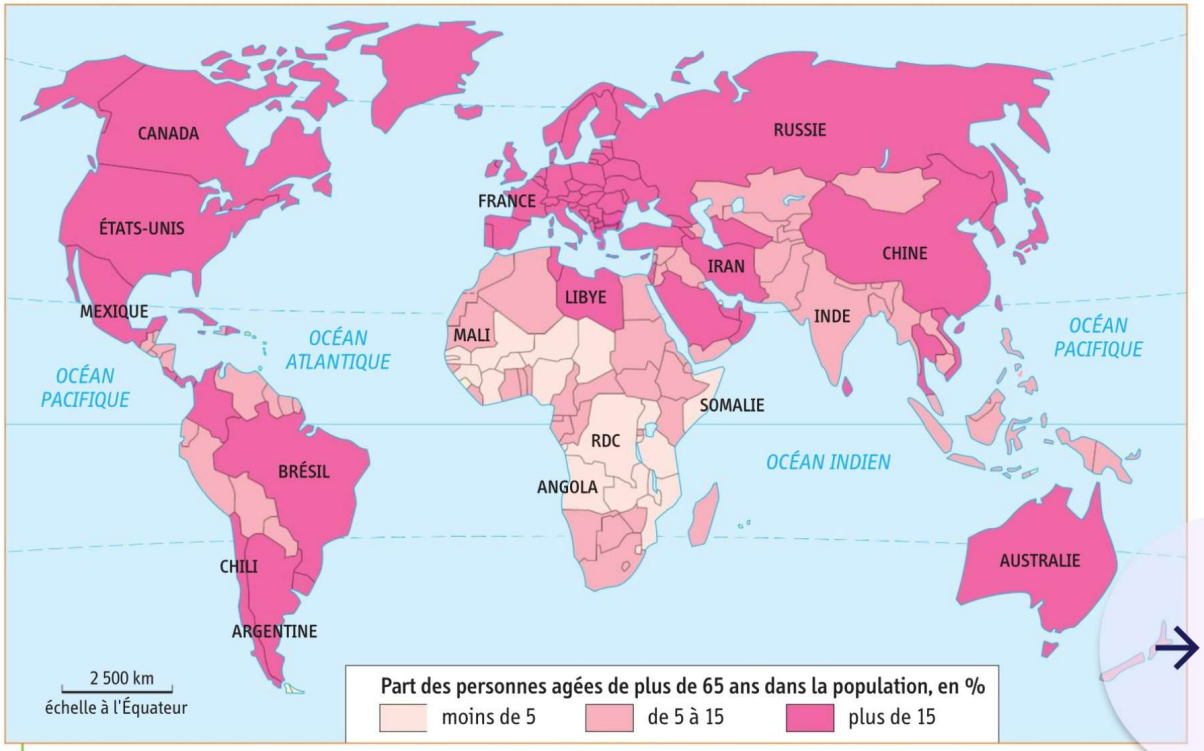

La population âgée de plus de 65 ans dans le monde en 2050 (projection)

Manuel Hatier 5e Histoire Géographie, 2016, p. 217.

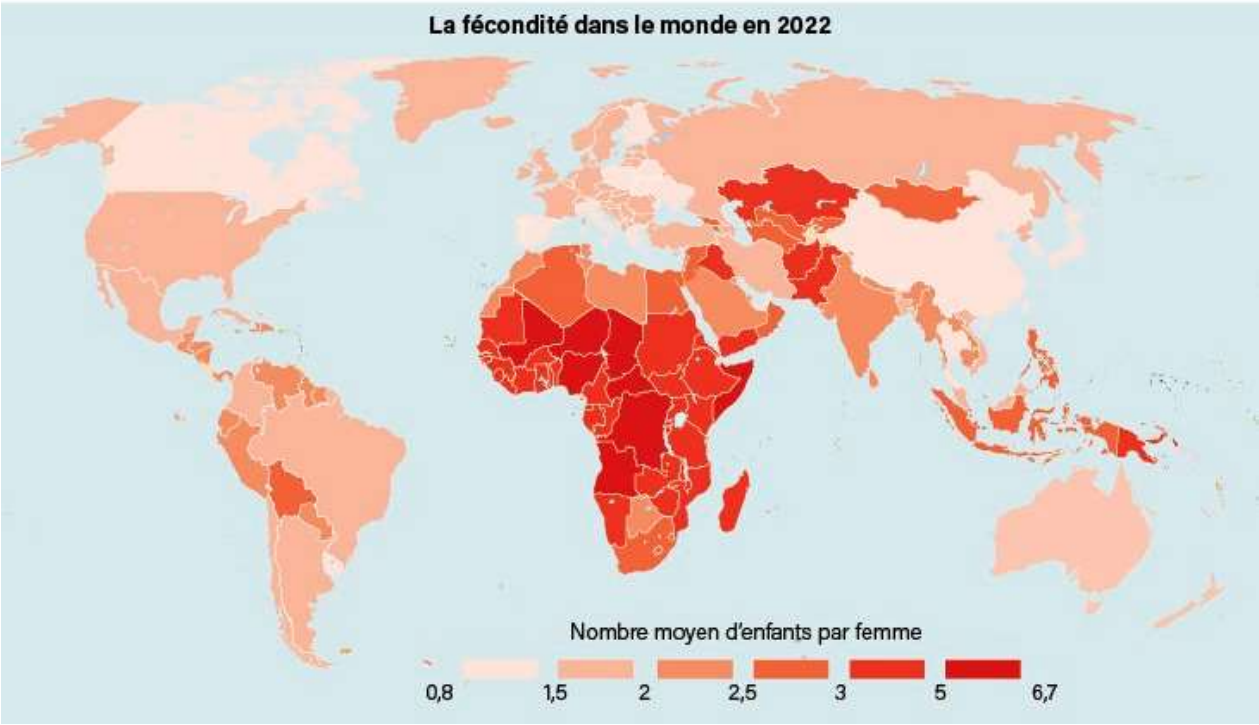

Pour la Science, n°541, novembre 2022.

© Gilles Pison. Source: ONU