Thème 1 : La longue histoire de l'humanité et des migrations.

Chapitre 1 : Les débuts de l'humanité.

S1a

Problématique : Dans quelles conditions les premiers Hommes apparaissent et peuplent-ils la Terre ?

Introduction : (Exercice 1 sur feuille de classeur)

La Préhistoire, en tant que science qui étudie le passé de l'humain avant l'apparition de l'écriture, n'est pas très ancienne. Ce passé de l'Homme se décompose en deux périodes : le Paléolithique (HistTh1 ch1) et le Néolithique (HistTh1 ch2), avant que n'apparaissent les premiers Etats et premières écritures (Hist th1 ch3).

La recherche scientifique des origines de l'Homme s'est faite dans la seconde moitié du XIXe siècle. Avant cela, on pensait traditionnellement que l'Homme était le résultat de la création des dieux dans le polythéisme (Hist th1 ch3, th2 ch1 et ch2) puis celle du Dieu unique dans le monothéisme biblique (Hist th2 ch3 et th3 ch2).

S1b

Compétences : Se repérer dans le temps, le langage de la frise chronologique

Exercice 2 : Donne une proposition pour chaque lettre de a à j afin de compléter la frise chronologique avec les propositions suivantes :
Antiquité - Histoire - Invention de l'agriculture - Invention de l'Ecriture - Naissance de Jésus - Néolithique - Paléolithique - Préhistoire - Premiers Hommes.

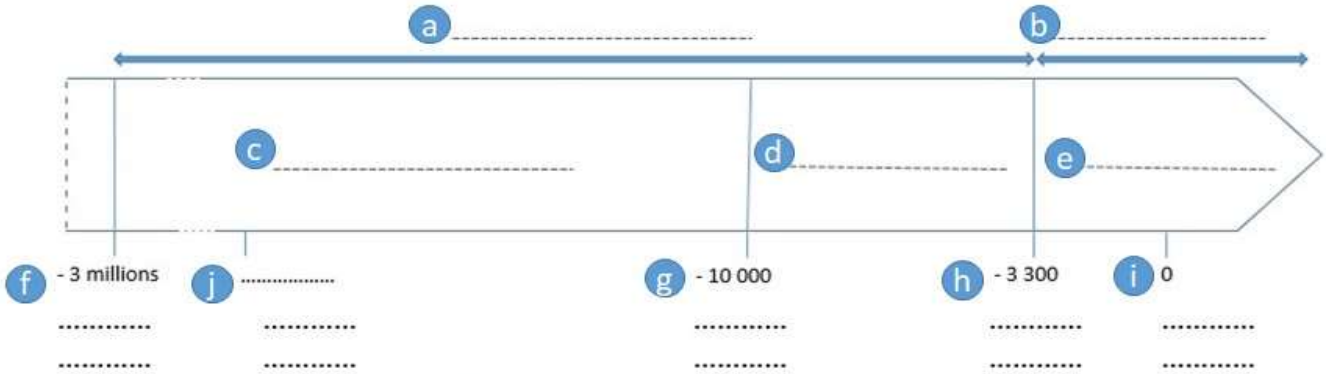

MÉTHODOLOGIE de la frise chronologique :

1/Les **dates/événements** sont le plus simplement indiqués à l'aide de **traits** verticaux qui barrent la frise chronologique, on y ajoute la date et l'information.

- S'il s'agit d'une **date pour renseignement**, on ne **barre que l'un des traits de la frise**,
- S'il s'agit d'un évènement majeur qui crée **une rupture** et change la période, le **trait barre toute la frise** chronologique.

2/Lorsque l'on veut indiquer **une durée**

- S'il s'agit d'une **période entre deux dates-rupture**, on **nomme la période dans la frise chronologique**, en lettres capitales. Les périodes différentes sont en générales teintées de couleurs différentes.
- Si on doit indiquer une durée qui englobe plusieurs périodes, on peut tracer une **flèche double au-dessus de la frise**
- Si on veut indiquer **une durée pour un événement long**, on peut tracer également une **flèche double, mais dans la frise cette fois-ci et on la nomme.**

I – Qui sont les premiers Hommes ?

I-A – Les premiers Hommes

D'après les recherches des paléontologues (= scientifiques qui cherchent et étudient les traces laissées des êtres vivants), les premiers ancêtres de l'Homme vivaient en Afrique tropicale, il y a 3 millions d'années. Ces traces sont en générale sous forme de fossiles (=traces du passé devenues minérales).

I-B – Leur évolution

S2

Entre 3 millions d'années et 300 000 ans avant J.-C. : On connait trois espèces, l'homo habilis qui utilise des outils et l'homo ergaster puis homo erectus qui, en plus, se déplacent vers des terres plus lointaines et sortent d'Afrique.

Entre 300 000 ans et 50 000 ans avant J.-C. : il existe différentes espèces humaines qui évoluent, se mélangent puis disparaissent, il n'en reste alors plus qu'une : l'Homo sapiens, nous !

II – Le peuplement de la Terre.

II-A – Les migrations des Homos sapiens

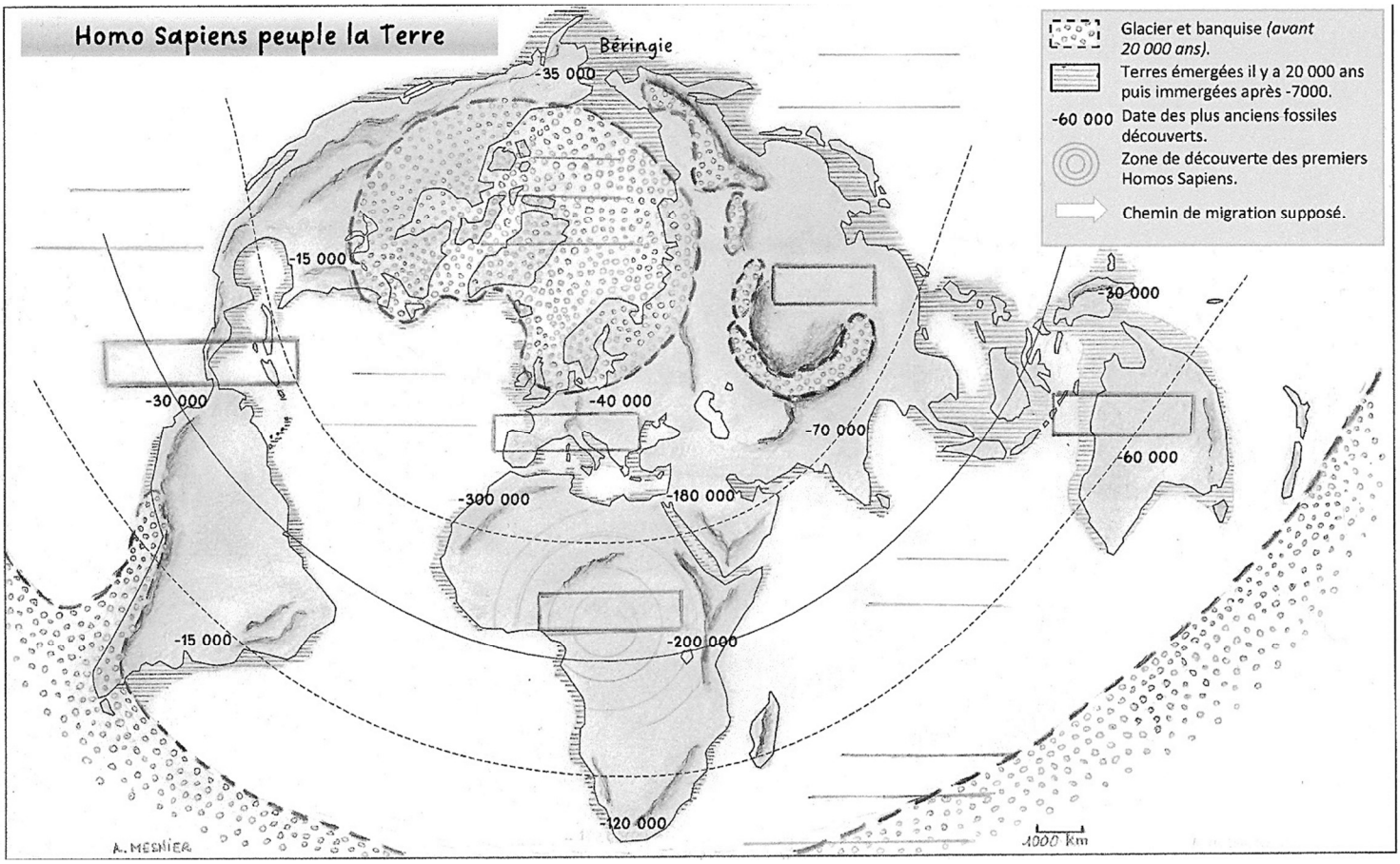

Exercice 4 :

1) Quelle est la nature du document ? Quel en est le sujet ?
2) Sur la carte, localise et nomme sur les traits, **en bleu et en lettres capitales** les océans et dans les rectangles**, en noir et en lettres capitales**, les continents.
3) Sur la carte et en légende, repasse **au feutre violet**, la zone de découverte des premiers Homos Sapiens.
4) Sur la carte, **au crayon à papier**, dessine les flèches de progression de la migration des Homos Sapiens en suivant les dates. (Nous les repasserons au feutre vert à la correction).

S3

Les Homos sapiens, au cours de déplacements lents appelés migrations, ont peuplé tous les continents. Ils s'adaptent alors à divers climats, ce qui entraine par exemple la différence de la couleur de la peau.

II- B – Le mode de vie des Homos sapiens

S4

Les archéologues (qui fouillent la terre et interprètent les traces laissées par les Hommes) ont reconstitué le mode de vie de ces premiers hommes à partir de traces retrouvées.

Exercice 5 : Légender le document

1) *Observe le document et relève ce qui te semble caractéristique du mode de vie à la fin du Paléolithique.*
2) *Trace à la règle une flèche dont la pointe montre l'élément relevé (au crayon à papier) à légender, l'extrémité doit dépasser de l'image (Voir exemple).*
3) *Nomme horizontalement l'élément relevé en utilisant le vocabulaire le plus approprié.*



Restitution du site de Pincevent

S4

A la fin du Paléolithique, à Pincevent, en Ile-de-France, les Hommes, appelés Magdaléniens maîtrisaient le feu, pour cuire leur nourriture, s'y chauffer, également se protéger des bêtes et éclairer lorsqu'il faisait froid et nuit. Ils se fabriquaient des outils pour chasser et se nourrir, ils cousaient aussi des vêtements et tentes avec les peaux.

Mais ils ne restent pas toujours vivre au même endroit et se déplacent en fonction de leurs besoins, on dit qu'ils sont nomades. On pense même qu'ils communiquaient avec un langage simple.

III – Croyances et expressions artistiques des premiers Hommes.

III-A- – Les arts préhistoriques (HDA)

S5

L'art apparaît vers 40 000 avant J.-C. Il y a l'art pariétal (= sur les parois), dont l'un des plus anciens témoignages est à Chauvet en Ardèche. Les dessins peints ou gravés représentent des animaux.

On a un art mobilier (= des objets avec un ornement artistique) très ancien avec des statuettes sculptées dans l'ivoire, l'os ou la pierre. Mais aussi des bijoux et petites collections d'objets trouvés beaux par nos ancêtres qui les ont ramassés et collectionnés !

On sait aussi que ces Hommes pratiquaient la musique, la danse et le chant.

III- B – La mort et le sacré

S6

Vers 100 000 ans avant J.-C., les hommes et les femmes préhistoriques commencent à enterrer leurs morts, nous pouvons en déduire que des croyances sont sans doute en train de naître.