Thème I : Chrétientés et islam, des mondes en contact (VIe-XIIIe s.)

Séance 0
Introduction :
Sortir de l'Antiquité

- Quelles situations sont à l'origine de la fin de l'Antiquité ?

- Devoirs : Réviser la numeration romaine. Exercice sur feuille double du thème : questions 1 à 4 de la diapositive 0d.

- Compétences : Se repérer dans le temps et dans l'espace avec le langage des cartes thématiques



0a

Doc 1 : L'Empire romain au début du IVe siècle

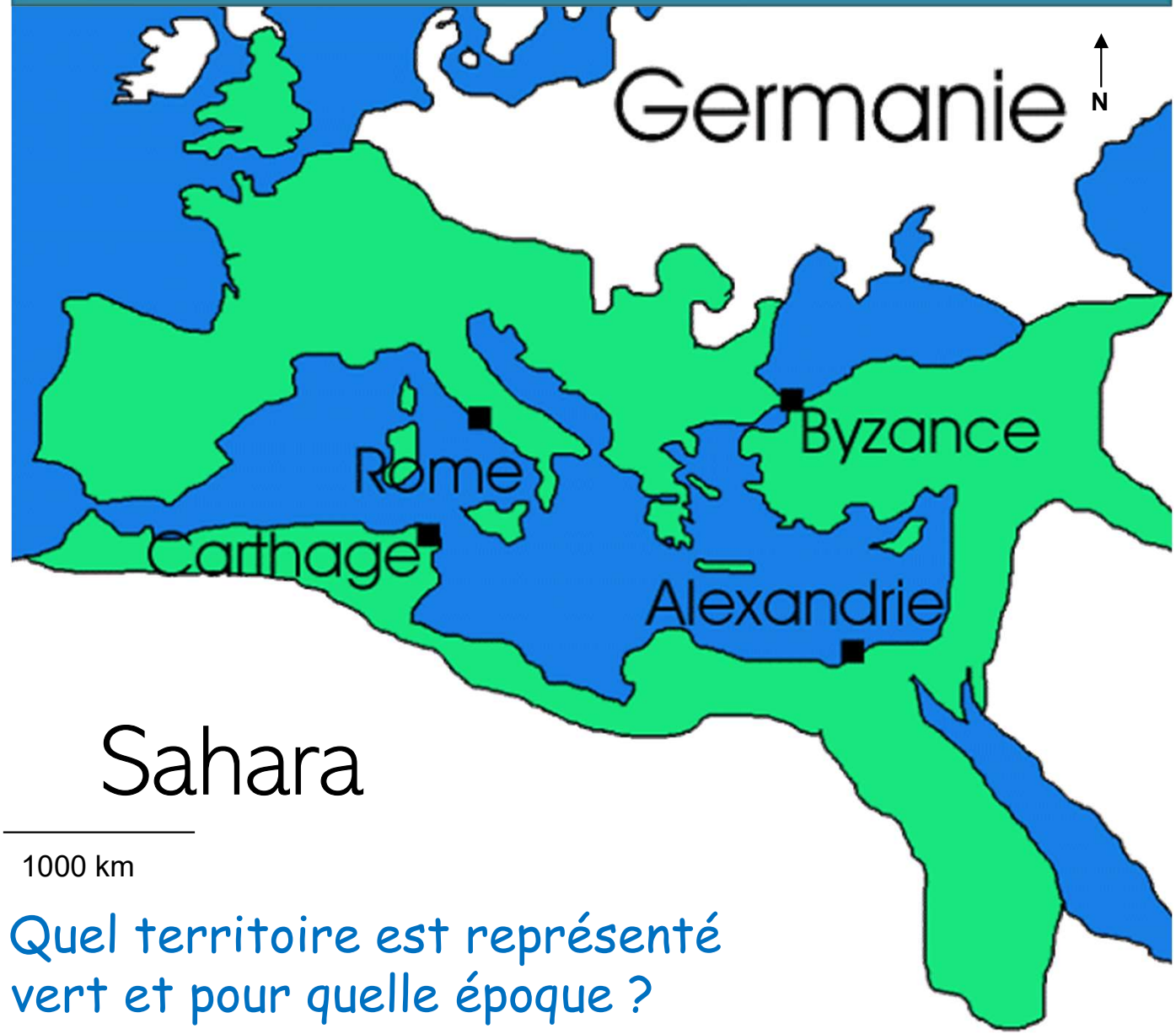

Compétence

Se repérer dans le temps et dans l'espace

A l'oral

- Quel territoire est représenté en vert et pour quelle époque ?
- Quelle mer est au centre de l'Empire ?
- Sur combien de continents se trouve l'Empire romain ? Nommez-les.

0b

Doc 1 : L'Empire romain au début du IVe siècle

Compétence

Se repérer dans le temps et dans l'espace

Doc 2

Constantin

306-337

A l'oral

- Qui est Constantin ?
- Essayez de trouver le lien entre Constantin et la ville de Constantinople.

Doc 3 : L'Empire romain à la fin du IVe siècle

0c

Se repérer dans le temps et dans l'espace

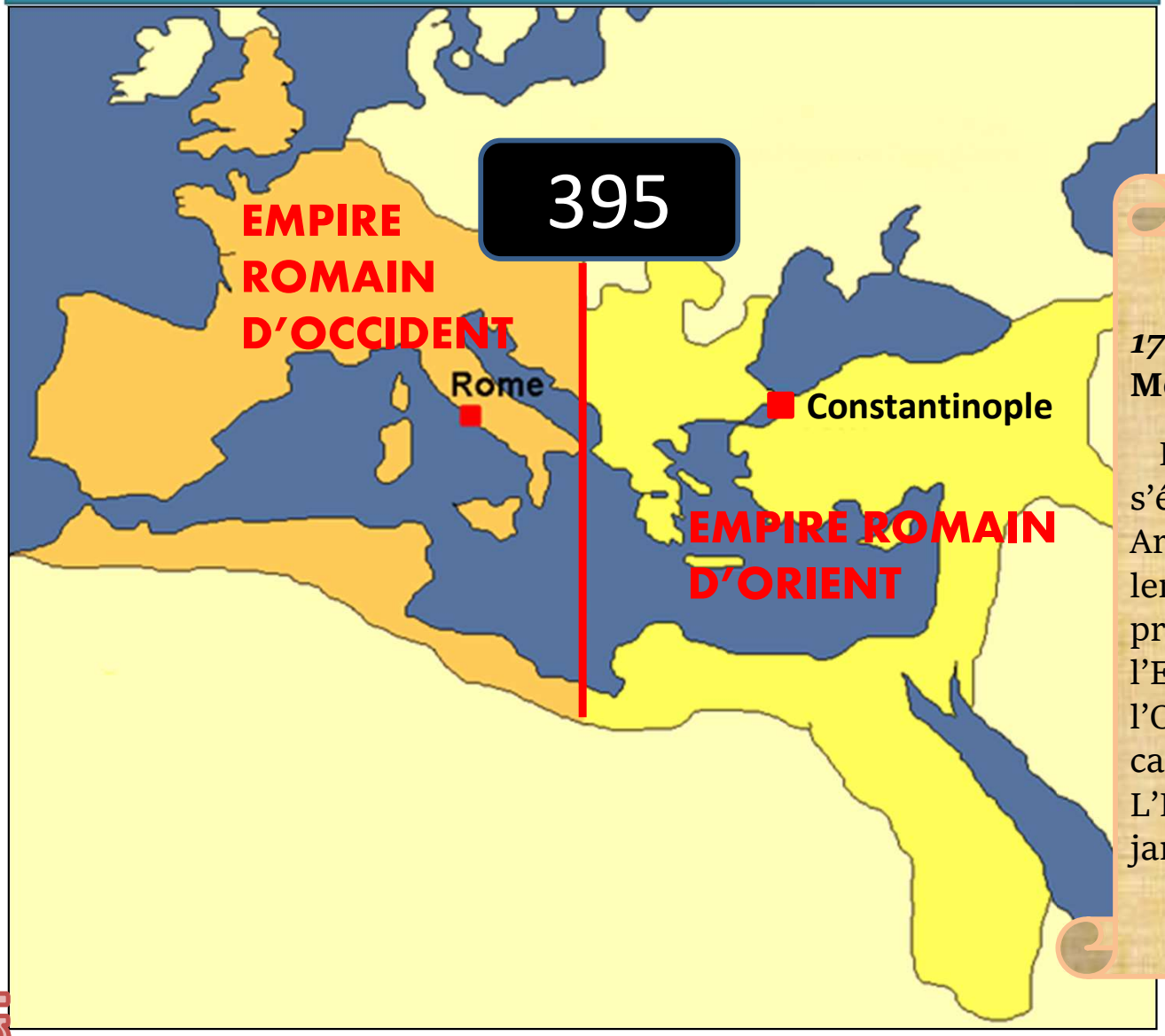

Doc 4

17 janvier 395

Mort de l'empereur Théodose Ier

L'empereur romain Théodose Ier s'éteint à Milan, laissant deux fils, Arcadius et Honorius. Au lendemain de sa mort, Arcadius prend les rênes des territoires de l'Est. Son frère, Honorius, hérite de l'Ouest et fait de Ravenne sa capitale en 404.

L'Empire romain ne sera plus jamais unifié.

A l'oral

1. De quel empire hérite chaque fils, et depuis quelle capitale gouvernent-ils ?
2. Pourquoi peut-on dire que 395 est une date « rupture »?

Doc 5 : Royaumes germaniques et Empires romains

Se repérer dans le temps et dans l'espace, pratiquer le langage cartographique

0d

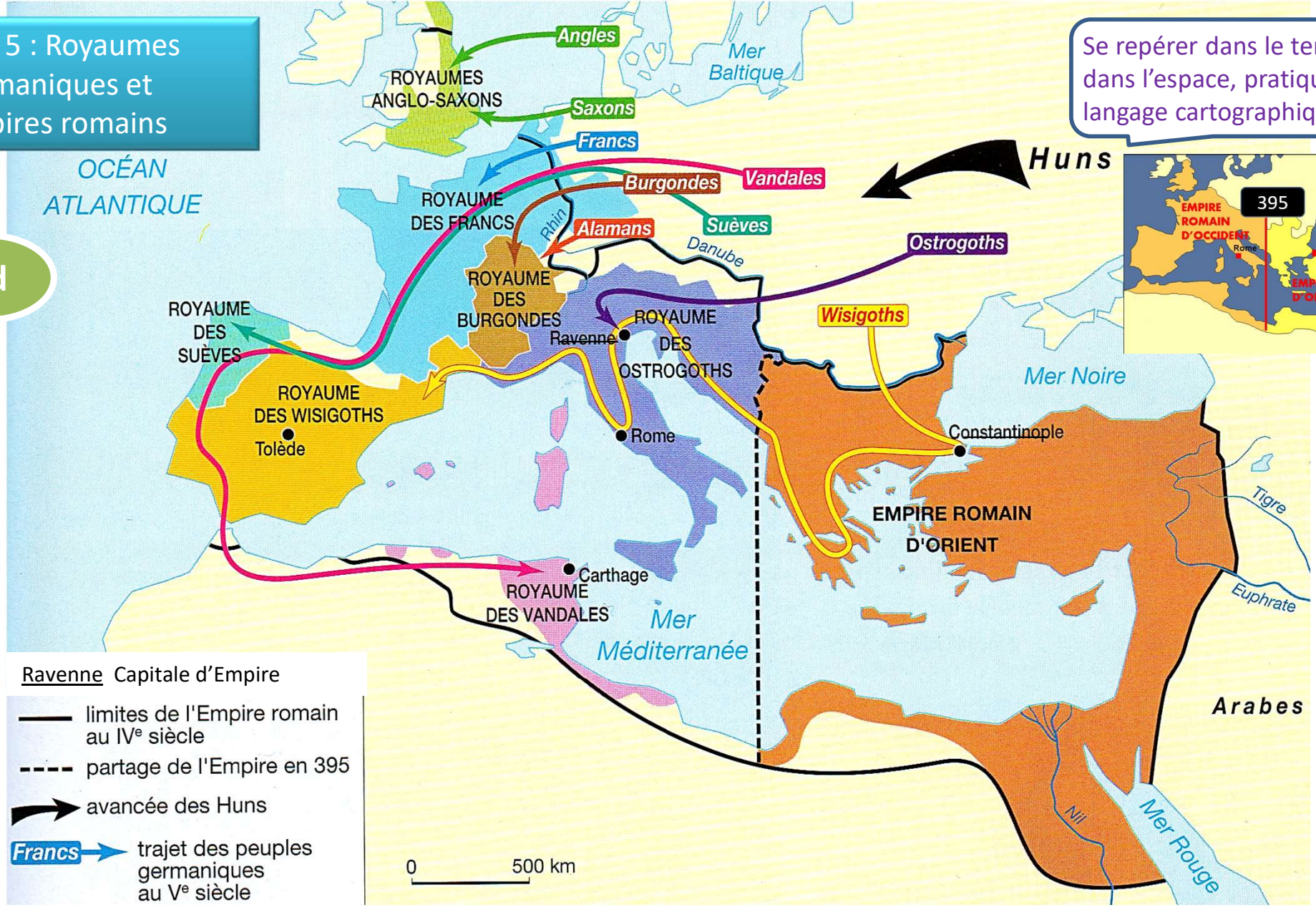

Devoirs

1. Doc 5 : Quelle époque est représentée sur cette carte ?
2. Quel empire romain est envahi et par qui ?
3. Pourquoi d'après le document attaquent-ils les empires ?
4. Quelle est la conséquence de ces invasions sur les empires romains ?

A. MESNIER

0e

Thème I : Chrétientés et islam, des mondes en contact (VIe-XIIIe s.)

Introduction:

L'Antiquité s'achève au Ve siècle avec la chute de l'Empire romain d'Occident (476). La puissance de l'Empire romain, qui était sur trois continents, a disparu en raison de sa division (395) puis des invasions germaniques.

Quels sont les nouveaux équilibres du pouvoir en Méditerranée au Moyen-Age ?

Partie 1 : L'Empire byzantin

Partie 2 : L'Empire carolingien

Partie 3 : Le monde arabo-musulman

Partie 4 : Des mondes en contacts

0f

Vocabulaire/Repères

395 : Division de l'Empire romain en deux :
- À l'ouest, L'Empire romain d'Occident (Rome/Ravenne)
- A l'est, l'Empire romain d'Orient (Constantinople).

476 : Chute de l'Empire romain d'Occident, divisé en plusieurs royaumes en raison de la poussée des Huns sur les peuples germaniques.

EMPIRE : Ensemble de territoires et peuples sous domination d'un chef unique.

ANTIQUITÉ : Première période de l'Histoire, de la naissance de l'écriture (-3300) à la chute de l'Empire romain d'Occident (476).

Suivie du Moyen-Age

Préparation de la feuille double pour la Partie 1

Devoirs pour séance 1 :

Réviser numération romaine, l'introduction et le vocabulaire/repères.